5. Parastās daļas

(atbildes pārbaudes darbam)

1. variants

1. Rudenī pagrabā novietoja 96kg ābolu. Ziemassvētkos atklājās, ka tie zaudējuši $\frac{1}{8}$ savas masas. Cik kilogramu sākotnējās masas āboli bija zaudējuši? **12kg**

2. Zēns nobrauca $\frac{1}{7}$ visa ceļa jeb 15km. Aprēķini, cik kilometru garš viss ceļš! **105km**

3. Salīdzini $\frac{1}{100}$ un $\frac{1}{99}$; $\frac{1}{5}$ un $\frac{1}{4}$! $\mathbf{\frac{1}{100} < \frac{1}{99}; \frac{1}{5} < \frac{1}{4}}$

4. Uzzīmē 10 vienādas rūtiņas! Iekrāso $\frac{1}{10}$ no visām rūtiņām sarkanā krāsā, bet $\frac{1}{5}$ - zilā. Uzraksti, kāda daļa no visām rūtiņām paliek neiekrāsota! $\mathbf{\frac{7}{10}}$ **no visām rūtīm paliek neiekrāsota**



5. Klasē 23 skolēni, bet 12 no visiem skolēniem ir zēni. Uzraksti daļskaitli, kas izsaka, kāda daļa no visiem skolēniem klasē ir meitenes! $\mathbf{\frac{11}{23}}$
   Izveido uzskatāmu zīmējumu!

5. Parastās daļas

(atbildes pārbaudes darbam)

2. variants

1. Lasot zemenes kopā ar māmiņu, Rudīte salasīja 6 litrus zemeņu jeb $\frac{1}{3}$ no visu kopīgi salasīto zemeņu daudzuma. Aprēķini, cik litrus zemeņu salasīja māmiņa kopā ar Rudīti! **18 litrus**

2. Vecmāmiņa notina $\frac{1}{6}$ visa dzijas kamola. Aprēķini, cik metrus dzijas vecmāmiņa notina, ja kamolā bija 240m dzijas! **40m**

3. Salīdzini $\frac{1}{34}$ un $\frac{1}{33}$; $\frac{1}{150}$ un $\frac{1}{151}$! $\mathbf{\frac{1}{34} < \frac{1}{33}; \frac{1}{150} > \frac{1}{151}}$

4. Uzzīmē 20 vienādas rūtiņas! Iekrāso $\frac{1}{10}$ no visām rūtiņām sarkanā krāsā, bet $\frac{1}{5}$ - zilā. Uzraksti, kāda daļa no visām rūtiņām paliek neiekrāsota! $\mathbf{\frac{14}{20} = \frac{7}{10}}$ **no visām rūtīm paliek neiekrāsota**

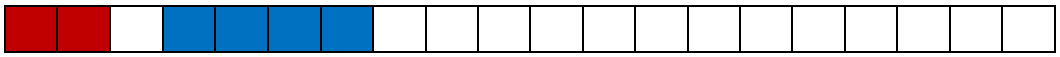
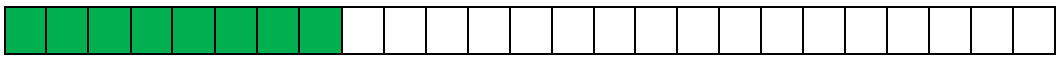
5. Klasē 25 skolēni, bet 17 no visiem skolēniem ir meitenes. Uzraksti daļskaitli, kas izsaka, kāda daļa no visiem skolēniem klasē ir zēnu! $\mathbf{\frac{8}{25}}$
   Izveido uzskatāmu zīmējumu!